الثانوية الإعدادية بنصفار
الأستاذ : جطيط المهدي

تقويم تشخيصي للسنة الأولى إعدادي

تمرين 1

انشئ المستقيم (D') العمودي على المستقيم (D) والمار من A باستعمال الوسائل الهندسية المناسبة:

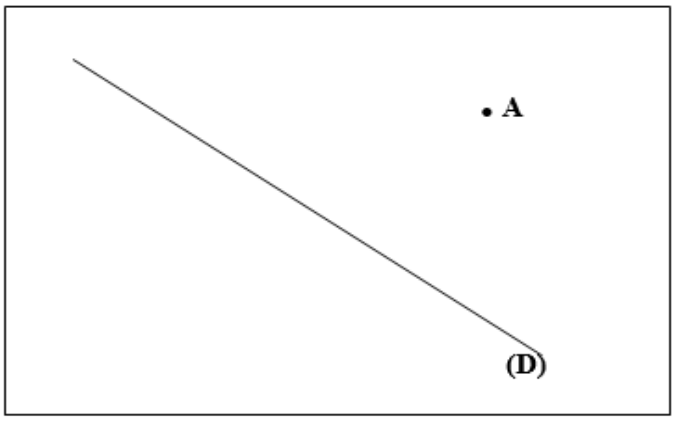

تمرين 2

علما أن قياس الزاوية $[\widehat{BOC}]$ هو $45°$ (أنظر الشكل)

احسب بدون استعمال الأدوات الهندسية، قياس الزاوية $[\widehat{AOB}]$

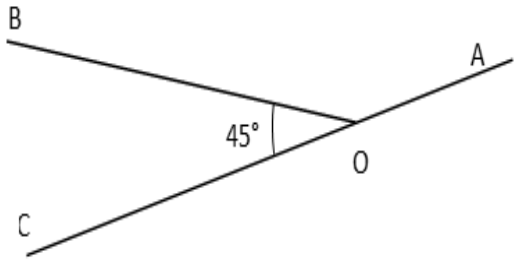

و أطر الجواب الصحيح من بين الأجوبة التالية

$180°$ $100°$ $135°$

تمرين 3

أنشئ داخل الإطار أسفله الدائرة (C) التي مركزها O وشعاعها $2\ cm$ ،

باستعمال الأدوات الهندسية المناسبة :

. O

تمرين 4

ملعب على شكل مستطيل قياس محيطه 580m، وقياس عرضه 90m، ما هو قياس طوله ب m ؟ أطر الجواب الصحيح من بين الأجوبة التالية

290m 200m 390m

تمرين 5

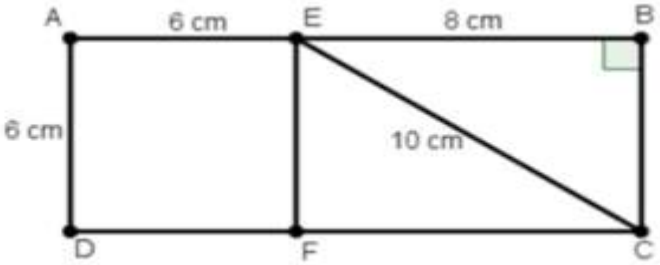

إنطلاقا من الشكل أعلاه أتمم الجدول التالي

الشكل	طبيعته	محيطه	مساحته
ABCD	.....	.....	.....
AEFD	.....	.....	.....
EBC	.....	.....	.....
EBCF	.....	.....	.....

اسم التلميذ :

الثانوية الإعدادية بنصفار
الأستاذ : جطيط المهدي

تقويم تشخيصي للسنة الأولى إعدادي

تمرين 1

انشئ المستقيم (D') العمودي على المستقيم (D) والمار من A باستعمال الوسائل الهندسية المناسبة:

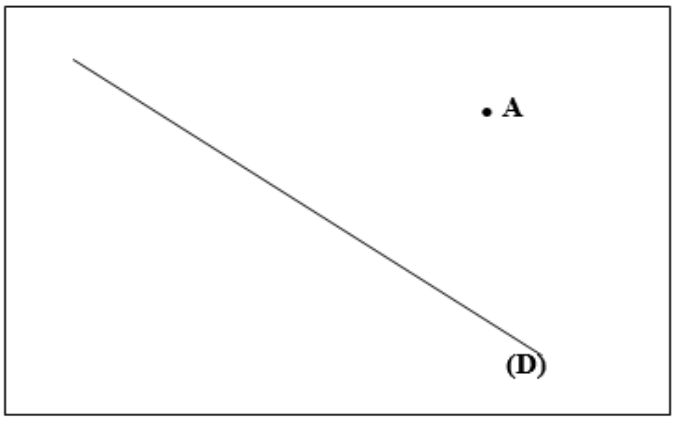

تمرين 2

علما أن قياس الزاوية $[\widehat{BOC}]$ هو $45°$ (أنظر الشكل)

احسب بدون استعمال الأدوات الهندسية، قياس الزاوية $[\widehat{AOB}]$

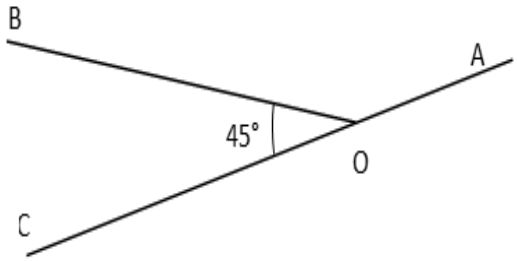

و أطر الجواب الصحيح من بين الأجوبة التالية

$180°$ $100°$ $135°$

تمرين 3

أنشئ داخل الإطار أسفله الدائرة (C) التي مركزها O وشعاعها $2\ cm$ ،

باستعمال الأدوات الهندسية المناسبة :

. O

تمرين 4

ملعب على شكل مستطيل قياس محيطه 580m، وقياس عرضه 90m، ما هو قياس طوله ب m ؟ أطر الجواب الصحيح من بين الأجوبة التالية

290m 200m 390m

تمرين 5

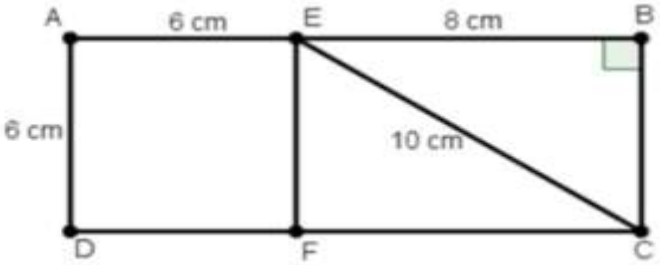

إنطلاقا من الشكل أعلاه أتمم الجدول التالي

الشكل	طبيعته	محيطه	مساحته
ABCD	.....	.....	.....
AEFD	.....	.....	.....
EBC	.....	.....	.....
EBCF	.....	.....	.....

اسم التلميذ :